16 DICIEMBRE 2019

EXAMEN 4º ESO_PLÁSTICA

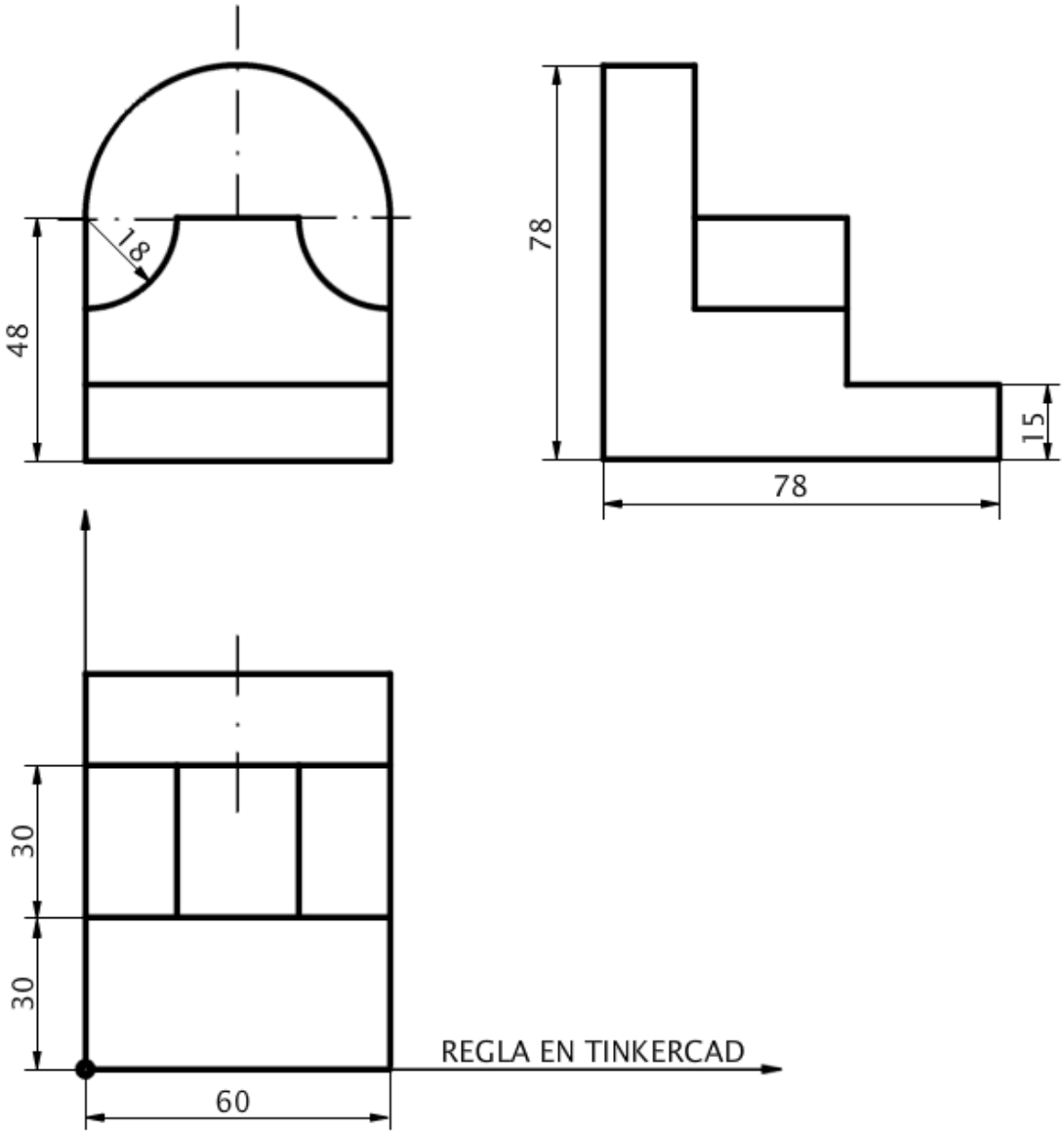

EJERCICIO UNO
Se valorará la correcta construcción de la pieza utilizando el programa TINKERCAD. MÁXIMO 6 PUNTOS :
MEDIDAS CORRECTAS: 1 PUNTOS
SITUACIÓN DE LA PIEZA SEGÚN REGLA: 1 PUNTO
UNIÓN CORRECTA DE TODAS LAS MACLAS: 1 PUNTOS
ENLACE DEL EJERCICIO PARA SU CORRECCIÓN 1 PUNTO
FOTOGRAFÍA EN LA QUE APAREZCA LA PIEZA EN LA SITUACIÓN SOLICITADA POR LAS VISTAS (1 PUNTO)

16 DICIEMBRE 2019

EXAMEN 4º ESO_PLÁSTICA

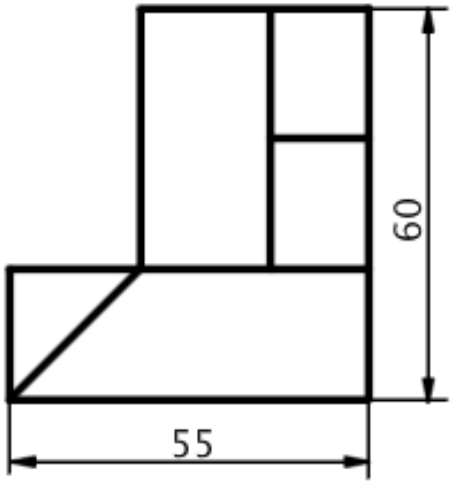

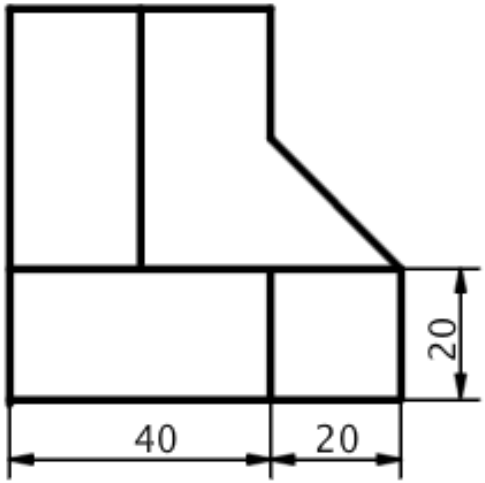
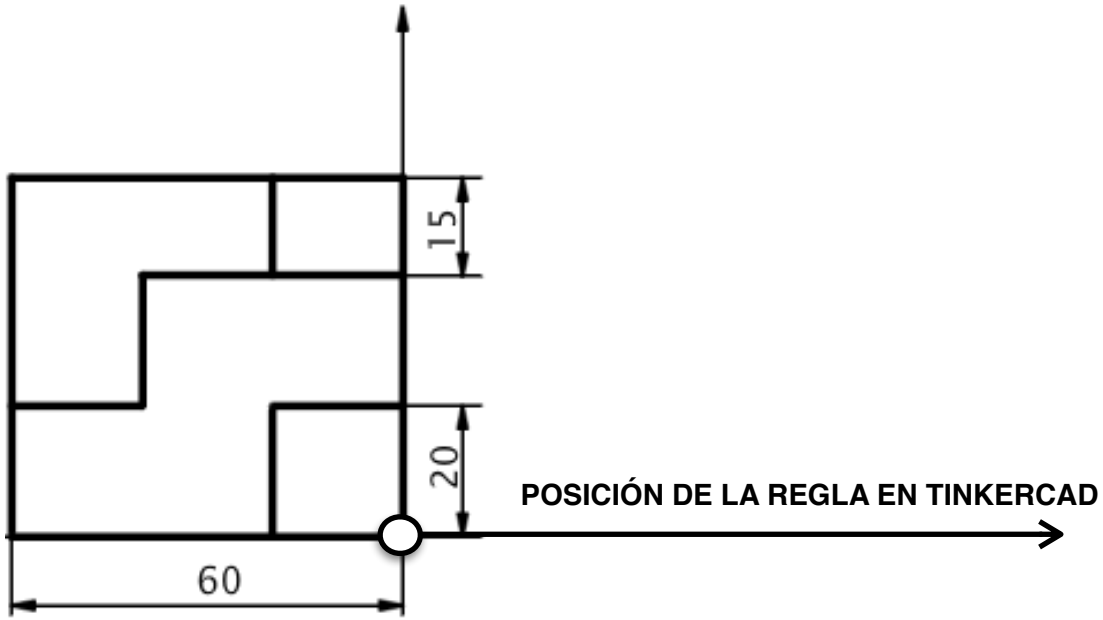
EJERCICIO DOS
Se valorará la correcta construcción de la pieza utilizando el programa TINKERCAD. MÁXIMO 4 PUNTOS :
MEDIDAS CORRECTAS: 0,5 PUNTOS
SITUACIÓN DE LA PIEZA SEGÚN REGLA: 0,5 PUNTO
UNIÓN CORRECTA DE TODAS LAS MACLAS: 0,5 PUNTOS
ENLACE DEL EJERCICIO PARA SU CORRECCIÓN 0,5 PUNTOS
FOTOGRAFÍA EN LA QUE APAREZCA LA PIEZA EN LA SITUACIÓN SOLICITADA POR LAS VISTAS (1 PUNTO)